答え

3年 算数

長い長さの表し方

3年　　組

名前

1 ①～⑦の（　）に当てはまる答えを書きましょう。

① 2m50cmは（ 250 ）cm
② 370cmは（ 3 ）m（ 70 ）cm
③ 4900mは（ 4 ）km（ 900 ）m
④ 2km 90mは（ 2090 ）m
⑤ 1235mは（ 1 ）km（ 235 ）m
⑥ 3mは（ 1m ）の3つ分の長さ
⑦ 8kmは（ 1km ）の8つ分の長さ

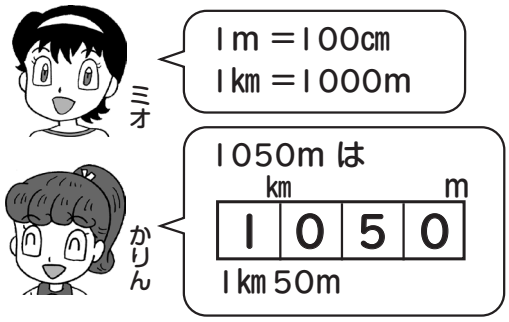

2 ①～⑤の（　）に当てはまる長さのたんいを書きましょう。

①教室のドアのはば 89（ cm ）

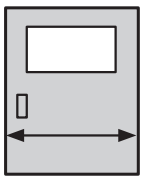

②教科書のあつさ 7（ mm ）

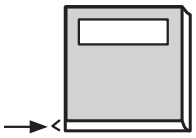

③バケツのまわりの長さ 62（ cm ）5（ mm ）

④けいじ板の長さ 3（ m ）90（ cm ）

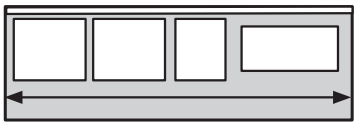

⑤自動車が1時間で走る道のり 60（ km ）

3 まきじゃくのア・イ・ウのめもりが表す長さを（　）に書きましょう。
また、アからウまでの長さを（　）に書きましょう。

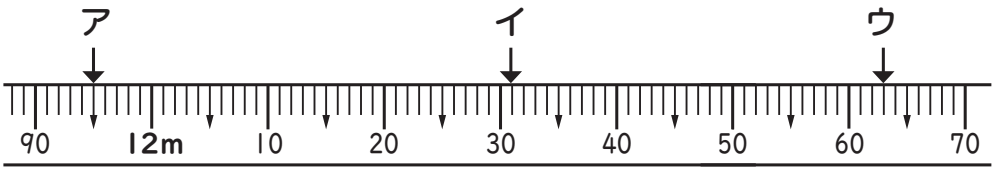

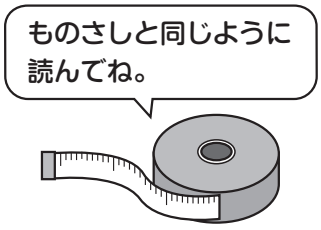

ア（ 11m95cm ）　イ（ 12m31cm ）　ウ（ 12m63cm ）　ア～ウ（ 68cm ）

4 右の図を見て、①～③の（　）に答えを書きましょう。

①レンの家からかりんの家までの道のりは（ 700 ）mです。
②レンの家からミオの家までのきょりは（ 920 ）mです。
③レンの家からミオの家までの道のりは（ 1100 ）mで、（ 1 ）km（ 100 ）mです。

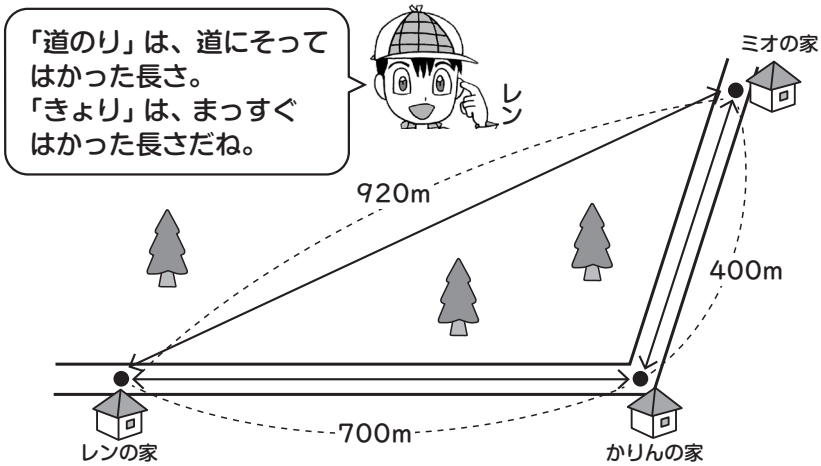

小学館「みんなの教育技術」（https://kyoiku.sho.jp/）　イラスト／嵩瀬ひろし