3年	算数	整理のしかたとぼうグラフ	3年　　組
			名前

1 40まいの動物の絵のカードがあります。

①1れつずつ見ながら、「正」の字を使って、㋐の表に書きましょう。

②㋐の表を数字に直して、㋑の表に書きましょう。



㋐

ネコ	
イヌ	
ウサギ	
コアラ	
パンダ	

㋑　すきな動物

ネコ	
イヌ	
ウサギ	
コアラ	
パンダ	
合計	

1は一、2は丁、3は下、4は正、5は正。

レン

正の字なら速く、正かくに、数を記ろくできるね。

かりん

合計で数が合っているか、かくにんできるわね。

ゆい

2 50人の友だちにすきなスイーツをえらんでもらい、表にしました。これを多いじゅんにぼうグラフに表しましょう。

すきなスイーツの人数（人）

だんご	11
どらやき	10
だいふく	6
カステラ	8
ケーキ	15
合計	50

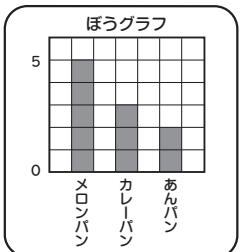

きんた

いちばん多い数が表せるようにたてのじくにめもりをつけるよ。

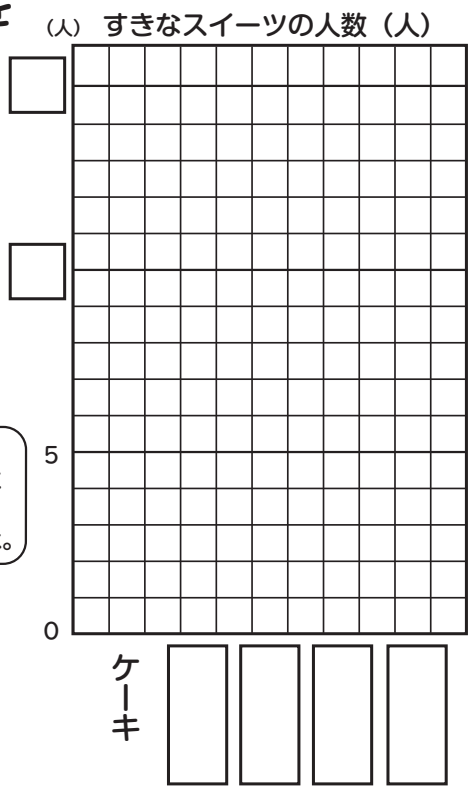

ぼうの長さで数の大きさを表したグラフをぼうグラフと言うよ。

ミオ

多い少ないが、わかりやすいね。

①ぼうグラフのたてのめもりは何を表していますか。　（　　）

②ひとめもりは何人を表していますか。　（　　）

小学館「みんなの教育技術」（https://kyoiku.sho.jp/）　イラスト／嵩瀬ひろし