答え

3年 算数 かける数・かけられる数

3年　　組

名前

1 2のだんのかけ算の表について答えましょう。

①空いているマスに数字を書きましょう。

(かける数)	1	2	3	4	5	6	7	8	9
(かけられる数)	2	2	4	6	8	10	12	14	16	18

②かける数が1ふえると、かけ算の答えはいくつ大きくなりますか。　答え（　2　）

③【れい】にならって、㋐～㋒の図に、九九の答えの1の位を点でつなぎましょう。

0からスタートして、九九の答えの1の位の数字がある点をつないでいくよ。0になったらおわるゲームだよ。(2・4・6・8・10)
1の位

【れい】2のだん

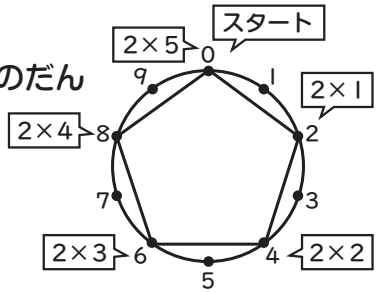

㋐～㋒の（　　）に0になるまでの九九の答えを書きましょう。

㋐ 4のだん

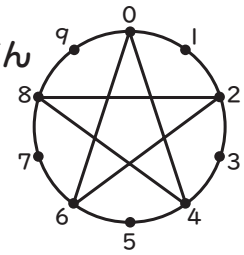

（4・8・12・16・20）

㋑ 8のだん

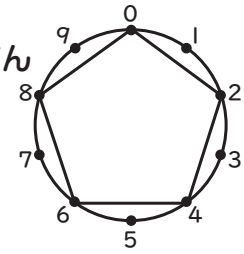

（8・16・24・32・40）

㋒ 3のだん

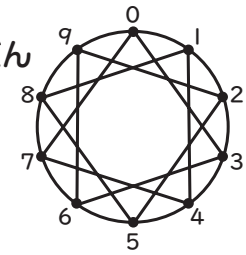

（3・6・9・12・15・18・21・24・27・30）

同じ形になるのもあるから、ほかのだんもやってみてね。

2 3人でなげなわゲームをしました。①～⑥の（　）にとく点をもとめる式と答えを書きましょう。ピンの数字は点数です。

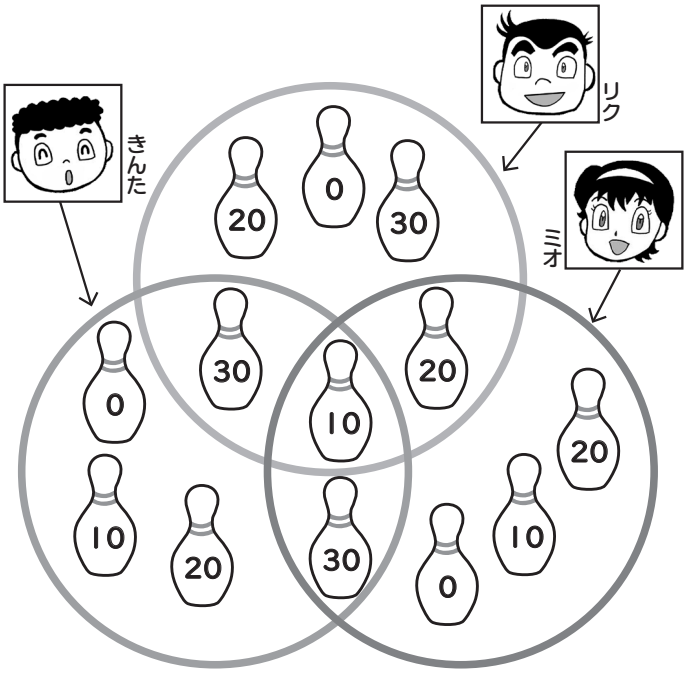

①きんたの0点ピンのとく点
式（　0×1＝0　）答え（　0点　）

②きんたの10点ピンのとく点
式（10×2＝20）答え（20点）

③きんたの20点ピンのとく点
式（20×1＝20）答え（20点）

④きんたの30点ピンのとく点
式（30×2＝60）答え（60点）

⑤きんたの合計とく点
式（0+20+20+60=100）答え（100点）

⑥だれが一番とく点をとりましたか。
名前ととく点を書きましょう。
名前（リク）　とく点（110点）

小学館「みんなの教育技術」（https://kyoiku.sho.jp/）　イラスト／嵩瀬ひろし