答え

3年 算数 ぼうグラフと間の数

3年　　組

名前

1 下の①～③のぼうグラフで１めもりが表している大きさを（　）に書き、ぼうが表している大きさを□に書きましょう。

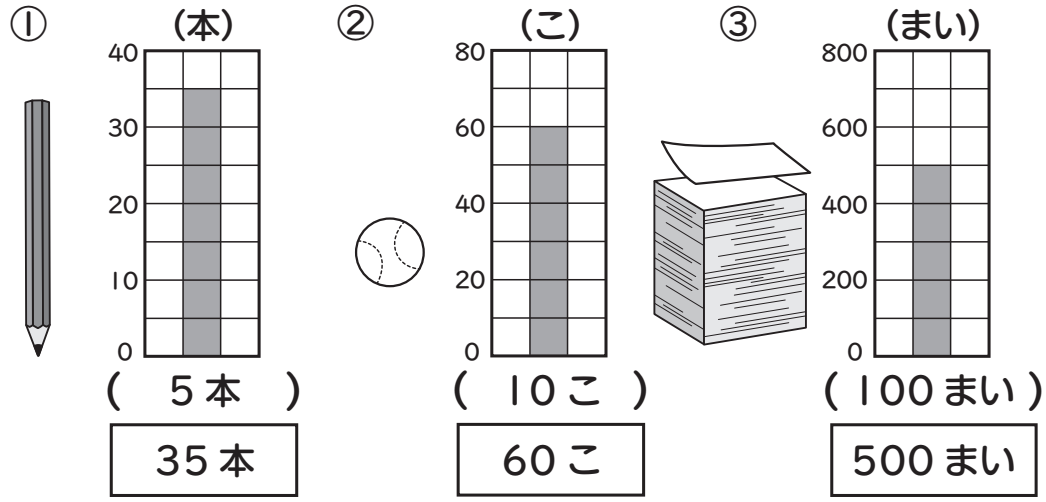

（　５本　）　（　10こ　）　（100まい）

35本　60こ　500まい

2 ①ゲームキャラクターが同じ間かくでならんでいるブロックの１こめから８こめまでジャンプしました。
ゲームキャラクターは何回ジャンプしたのでしょう。

答え（　７回　）

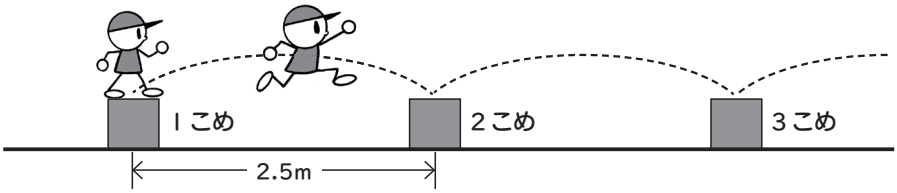



②ブロックが 2.5m ごとにならんでいるときに１こめから 10 こめまでジャンプすると何 m 進むことになるでしょう。

式（　2.5 × 9 ＝22.5　）　答え（ 22.5m ）

3 丸い形の池のまわりに木が 12m ごとに８本立っています。この池のまわりを１しゅうすると何 m になるでしょう。

式（　12 × 8 ＝96　）　答え（　96m　）

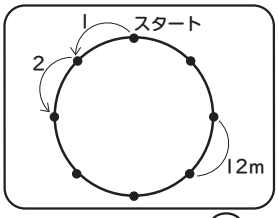

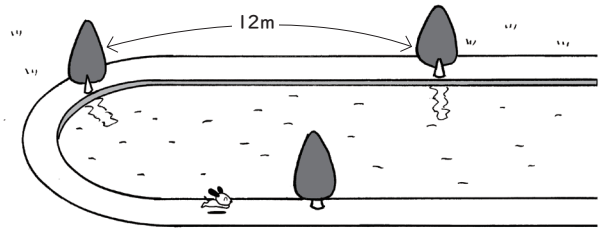

小学館「みんなの教育技術」（https://kyoiku.sho.jp/）　イラスト／嵩瀬ひろし